【問１】

下に横に並んだ数字の列があります。

□に入る数字は何でしょ？

5　7　3　6　2　9

9　6　3　7　5

5　7　6　9

□　□　□

□　□

【引用】解答掲載時に発表します。

【問２】

下の□に入る数字は何でしょう？

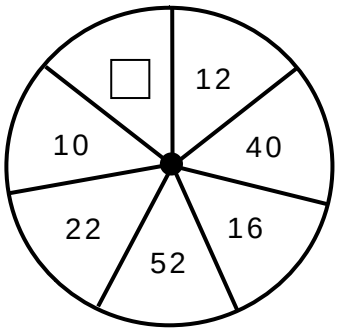

【引用】解答掲載時に発表します。

【問３】

鉛筆を３本取って、置き直して正三角形の数を１つ増やしなさい。



【引用】解答掲載時に発表します。

【問４】

この９つの団子を、ひとつなぎの４本の直線で串刺しにしなさい。各団子は１本しか直線は通しません。



【参考】５本のひとつなぎの直線で串刺しにした場合の解答

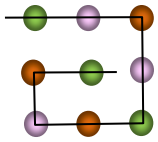

【引用】解答掲載時に発表します。